أتحقق من فهمي

الربيعيات

أتحققُ من فهمي: صفحة 146

يبيّنُ الجدولُ المجاورُ عددَ النقاطِ الّتي سجّلَها فريقُ كرةِ سلةٍ في أحدِ المواسمِ:

عددُ النقاطِ				
64	61	67	59	60
58	57	71	56	62

4 أجدُ المَدى.

5 أجدُ المَدى الرُّبَيعِيَّ.

6 أستعملُ المَدى والمَدى الرُّبَيعِيَّ لوصفِ البياناتِ.

4 15

5 6

6 [illegible] 15 [illegible] 58 [illegible] 64 [illegible]. [illegible] 58 [illegible] 64 [illegible] 6 [illegible].

أتحققُ من فهمي: صفحة 147

أجدُ القِيَمَ المتطرّفةَ (إنْ وُجِدَتْ) للبياناتِ الممثَّلةِ بمخطّطِ السّاقِ والورقةِ المجاورِ.

السّاقُ	الورقةُ
5	3 6 8
6	5 8
7	0 3 7 7 9
8	1 4 8 8 9
9	9

المفتاحُ: 5|3 = 53

$Q_1 = 66.5$, $Q_3 = 86$

[illegible] 37.25 [illegible] 115.25

أتحقّقُ من فهمي:

أستعملُ الصُّندوقَ ذا العارضتَينِ لتمثيلِ البياناتِ الآتيةِ الّتي تمثّلُ أعمارَ المعلّمينَ في إحدى المدارسِ:

30, 52, 26, 35, 45, 22, 49, 32, 28, 50, 42, 35

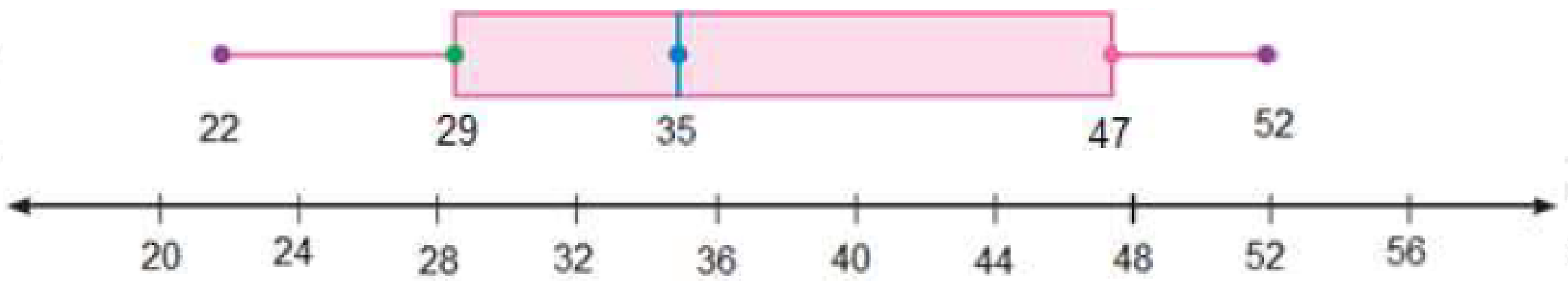

أتحقّقُ من فهمي: صفحة 149

ساعاتٌ: يبيِّن تمثيلُ الصُّندوقِ ذي العارضتَينِ المجاوِرُ أسعارَ الساعاتِ في أحدِ المحالِّ.

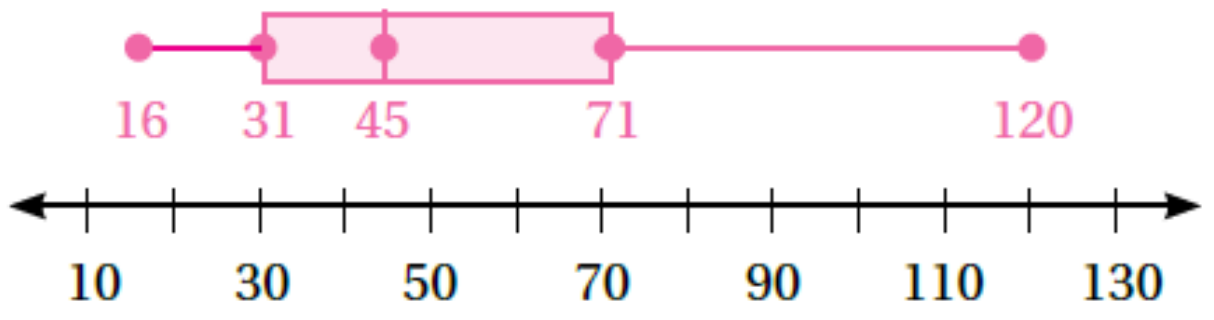

4 أصفُ توزيعَ البياناتِ.

5 أجدُ المَدى الرُّبَيعِيَّ للبياناتِ.

6 هَلِ البياناتُ أكثرُ تشتّتًا أسفلَ الرُّبَيعِ الأدنى أَمْ فوقَ الرُّبَيعِ الأعلى؟ أبرّرُ إجابتي.

4 [illegible] 104 [illegible] 16 [illegible] 31 [illegible] 31 [illegible] 71 [illegible] 71 [illegible] 120

5 [illegible] 40 [illegible] 40

6 [illegible].

أتحقق من فهمي:

هواتفُ: يبيّنُ تمثيلُ الصُّندوقِ ذي العارضتَينِ المزدوجِ أدناهُ أسعارَ الهواتفِ النقّالةِ في المحلَّينِ (أ) وَ (ب):

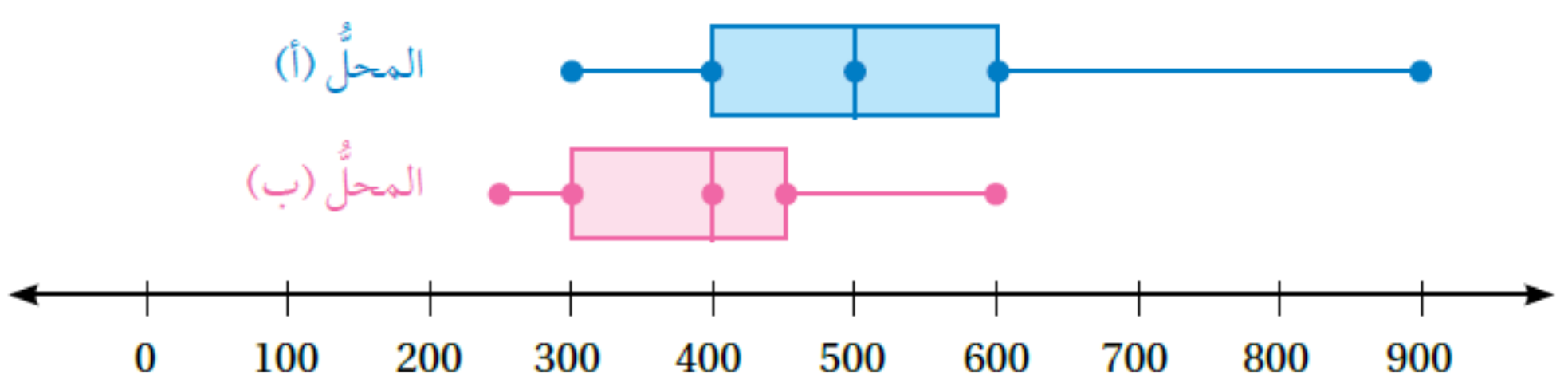

3 أيُّ المحلَّينِ أسعارُ الهواتفِ فيهِ أكثرُ تشتّتًا؟ أبرّرُ إجابتي.

4 أيُّ المحلَّينِ أسعارُ الهواتفِ فيهِ أعلى؟ أبرّرُ إجابتي.

3 [illegible] 400 [illegible].

4 [illegible] 400 [illegible] 400 [illegible].