حل أسئلة كتاب التمارين

جمع الأعداد الصحيحة

أُمَثِّلُ كُلَّ جُمْلَةِ جَمْعٍ مِمّا يَأْتي عَلى خَطِّ الْأَعْدادِ، ثُمَّ أَجِدُ النّاتِجَ:

1. $7+(-5)$

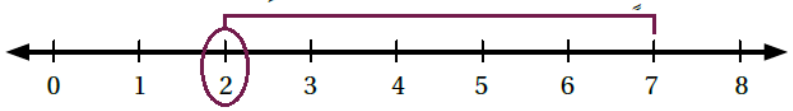

2. $-8+4$

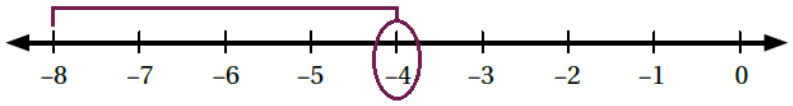

منهاجي

أَجِدُ ناتِجَ الْجَمْعِ في كُلٍّ مِمّا يَأْتي:

3. $-19+4=-15$
4. $39+(-7)=32$
5. $42+(-145)=-103$
6. $0+(-17)=-17$
7. $-75+(-8)=-83$
8. $18+61=79$

أُكْمِلُ كُلَّ نَمَطٍ مِمّا يَأْتي:

منهاجي

9. -21, −27, −33, −39, −45, -51, -57, -63
10. 41, 33, 25, 17, 9, 1, -7, -15

11. **عِمارات:** رُقِّمَتْ طَوابِقُ عِمارَةٍ مِنْ 6− إِلى 10، وَكانَتِ الطَّوابِقُ ذَواتُ الْأَرْقامِ السّالِبَةِ تَحْتَ الْأَرْضِ. إِذا بَدَأَ بَشيرٌ الصُّعودَ مِنَ الطّابَقِ 5−، وَصَعِدَ 12 طابَقًا، فَإِلى أَيِّ طابَقٍ وَصَلَ؟ 7

12. **شَدُّ الْحَبْلِ:** لَعِبَ فَريقُ الصَّفِّ الْخامِسِ مَعَ فَريقِ الصَّفِّ السّادِسِ لُعْبَةَ شَدِّ الْحَبْلِ. إِذا كانَتِ الْمَسافَةُ الَّتي كَسَبَها فَريقُ الصَّفِّ السّادِسِ، أَوْ خَسِرَها في أَرْبَعِ جَوْلاتٍ، هِيَ كَما يَأْتي:



الْجَوْلَةُ الْأولى: $+3\ m$ الْجَوْلَةُ الثّانِيَةُ: $-4\ m$

الْجَوْلَةُ الثّالِثَةُ: $+7\ m$ الْجَوْلَةُ الرّابِعَةُ: $+4\ m$

فَهَلْ كَسَبَ فَريقُ الصَّفِّ السّادِسِ أَمْ خَسِرَ؟ وَكَمْ مِتْرًا كانَ ذلِكَ؟ كسب $(+10\ m)$

منهاجي

أَضَعُ الْعَدَدَ الْمُناسِبَ في ☐ لِتُصْبِحَ كُلُّ جُمْلَةٍ مِمّا يَأْتي صَحيحَةً:

13. $-38+12=-26$
14. $3+(-43)+17=-23$