حل أسئلة كتاب التمارين

طرح الأعداد الصحيحة

أُمَثِّلُ كُلَّ جُمْلَةِ طَرْحٍ مِمّا يَأْتي عَلى خَطِّ الْأَعْدادِ، ثُمَّ أَجِدُ النّاتِجَ:

1 $6-(-6)$ = 12

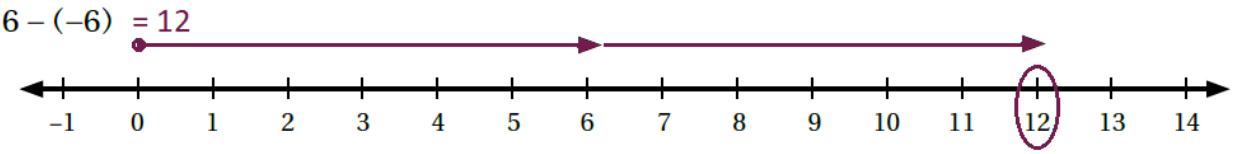

2 $-14-(4)$ = -18

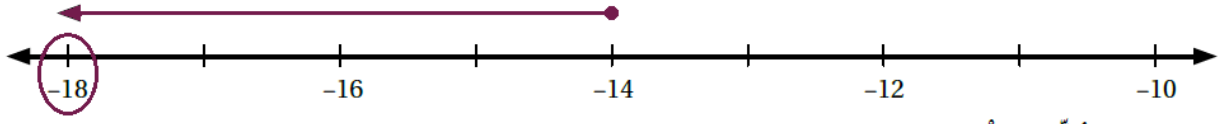

أَجِدُ النّاتِجَ في كُلٍّ مِمّا يَأْتي:

3 $4-12$ = -8

4 $-3-10$ = -13

5 $-14+9$ = -5

6 أَصِلُ بِخَطٍّ بَيْنَ كُلِّ جُمْلَتَيْنِ لَهُما النّاتِجُ نَفْسُهُ في ما يَأْتي:

-6	5	-7	9	-9
$3+(-9)$	$8+(-3)$	$-12-(-5)$	$11+(-2)$	$-3-6$
9	-9	-6	5	-7
$5-(-4)$	$-18-(-9)$	$-10+4$	$-5-(-10)$	$6-13$

7

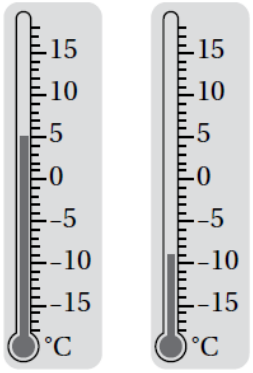

5 - (-9) = 14

8 أَجِدُ الْفَرْقَ بَيْنَ قِراءَةِ دَرَجَتَيِ الْحَرارَةِ لِكُلِّ ميزانَيْنِ مُجاوِرَيْنِ.

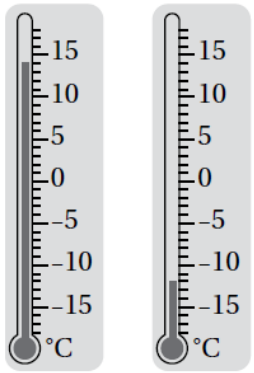

14 - (-12) = 26

إِذا كانَتْ $y=-9$ وَ $x=8$، فَأَجِدُ قيمَةَ كُلٍّ مِمّا يَأْتي:

9 $x-y+|-4|$ 8 - (-9) + 4 = 21

10 $2y-14+(-x)$ -18 - 14 + (-8) = -32 + (-8) = -40