أتحقق من فهمي

طرح الأعداد الصحيحة

أتحقق من فهمي صفحة (27)

(3) 3 - 7 = -7

(4) -1 - 5 = -6

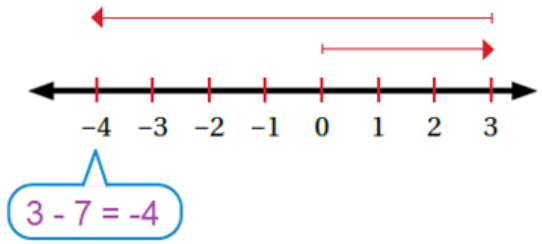

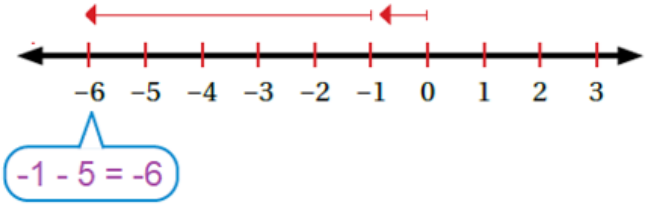

أتحقق من فهمي صفحة (28)

(3) 7 - (-9) = 16

(4) -4 - 1 = -5

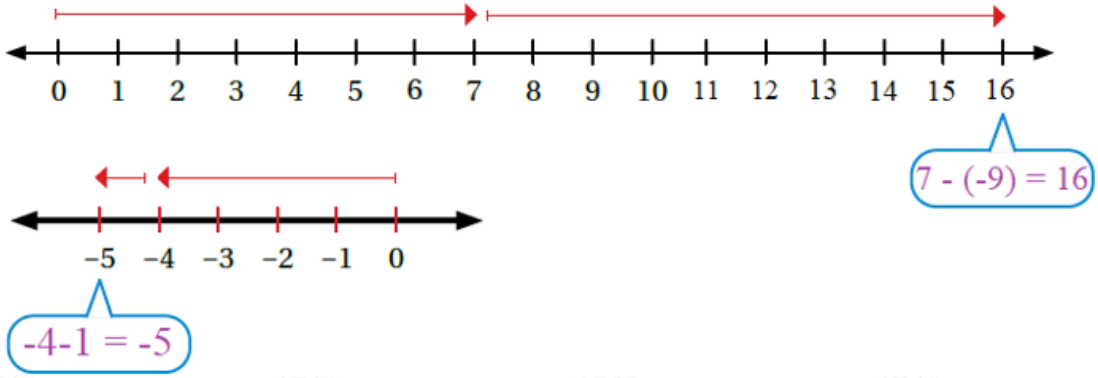

أتحقق من فهمي صفحة (28)

آثار: عثر عالم آثار على جمجمة بشرية على عم 220 cm تحت سطح الأرض إذا وجد هذا العالم عظم ساق أسفل الجمجمة بـ 27 cm، فعند أي عمق وجد عظم الساق؟

295 cm تحت مستوى الأرض.